JE ME TESTE 1

Prénom .....

Date .....

ESTIMER LES UNITÉS DE CONTENANCES

1 **Colorie** l'unité que tu utiliserais pour mesurer ces contenances.

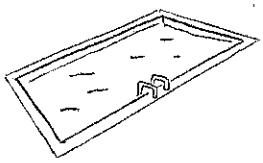

hL	dL	mL

daL	L	cL

kL	cL	mL

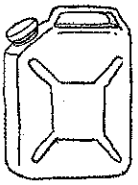

hL	L	dL

MESURER DES CONTENANCES

2 **Entoure** la contenance du liquide présent dans chaque récipient.

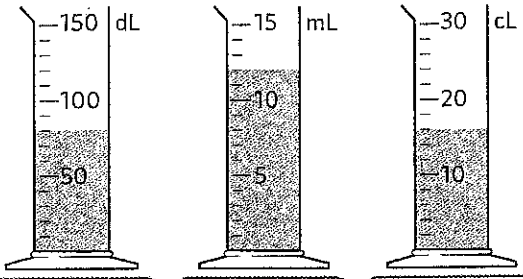

80 dL	53 dL	12 dL	12 mL	16 cL	13 cL

3 **Colorie** la contenance du liquide présent dans chaque récipient.

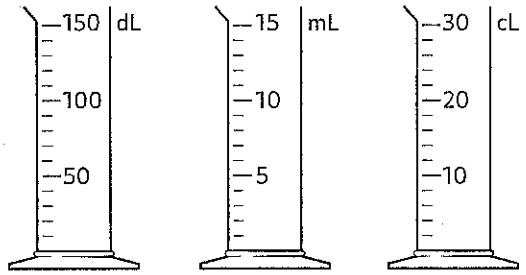

30 dL	8 mL	24 cL

CONVERTIR DES CONTENANCES

4 **Colorie** de la même couleur les contenances identiques à celles proposées.

29 daL	2 L 9 cL	2 L 9 dL	29 L	29 cL
290 mL	2 daL 9 L	209 cL	290 L	290 cL

COMPARER DES CONTENANCES

5 **Entoure** la plus grande des deux contenances proposées.

278 cL	398 mL
67 hL	8 kL

52 daL	6 820 dL
569 mL	59 cL

357 L	3 hL
85 L	849 dL

CALCULER AVEC DES CONTENANCES

6 Une personne consomme environ 80 L d'eau en prenant une douche par jour.
Combien d'eau consomme cette personne en un mois (30 jours) ?

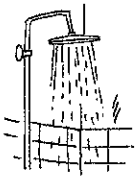

7 Une baignoire contient environ 180 L. Le robinet fournit 9 litres à la minute.
Combien de temps faut-il pour remplir la baignoire ?

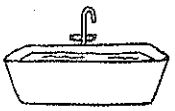

© MDI/SEJER, 2018. Reproduction autorisée pour une classe seulement.

JE ME TESTE 2

Prénom .....

Date .....

ESTIMER LES UNITÉS DE CONTENANCES

1 **Colorie** selon le code. La contenance se mesure :
en litres rouge, en hectolitres bleu, en centilitres vert et en millilitres jaune.

une seringue	une canette	un arrosoir	une tasse	un gel douche
un bidon	une piscine	une goutte	un aquarium	une citerne

MESURER DES CONTENANCES

2 **Indique** la contenance du liquide présent dans chaque récipient.

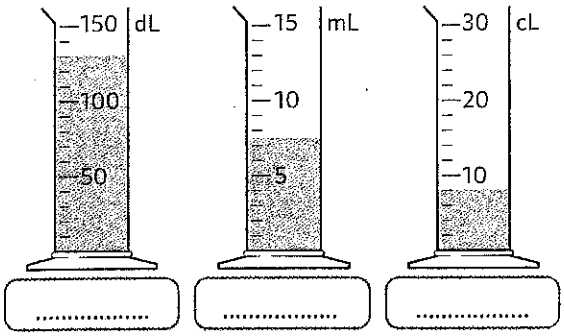

....

3 **Colorie** la contenance du liquide présent dans chaque récipient.

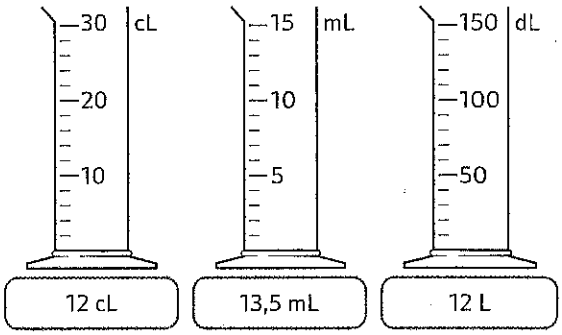

12 cL | 13,5 mL | 12 L

CONVERTIR DES CONTENANCES

4 Dans chaque liste, **entoure** la ou les contenances équivalentes à la contenance proposée.

87 daL	87 000 mL	8 700 L	8,7 hL
930 dL	9,3 L	9 300 mL	0,93 hL
6,8 hL	0,068 kL	680 L	680 daL
0,674 L	6,74 dL	6 740 mL	67,4 cL

COMPARER DES CONTENANCES

5 **Convertis** ces contenances dans la même unité puis **numérote**-les dans l'ordre croissant.

◯ 923,7 dL ◯ 81,7 daL ◯ 9781 mL ◯ 682 cL ◯ 6,91 L ◯ 7 hL

.....

CALCULER AVEC DES CONTENANCES

6 Un WC consomme 14 L d'eau à chaque utilisation.
Combien de fois peut-on utiliser un WC avec 7 hL d'eau ?

7 Pour réaliser un cocktail Florida, il faut 1 dL de jus d'orange, 4 cL de jus de citron et 2 cL de grenadine.
Combien faut-il de litres de chaque ingrédient pour 125 invités ?

© MDI/SEJER, 2018. Reproduction autorisée pour une classe seulement.